40 CALCUL RÉFLÉCHI – Calculer un produit – Problèmes schématisés

Fichier ou manuel CE2
Leçon 35

Prénom ..... Date .....

1 Rachel range ses figurines sur 5 étagères. Elle en place 13 par étagère.
Combien de figurines Rachel a-t-elle rangées ?

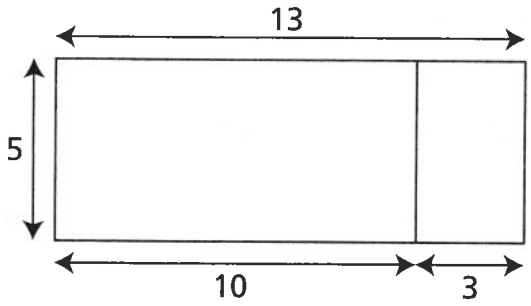

13 × 5 = ... × ..... + ... × .....

13 × 5 = ... + ...

13 × 5 = ...

Rachel a rangé ..... figurines.

2 Le carreleur a posé 6 rangées de 18 carreaux de céramique sur le mur de la cuisine.
Combien de carreaux le carreleur a-t-il posés ?

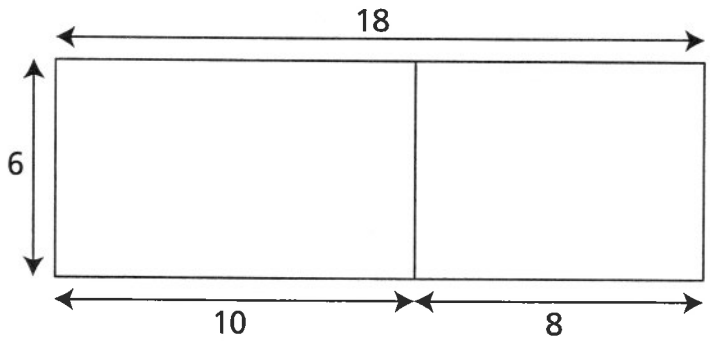

18 × 6 = ... × ..... + ... × .....

18 × 6 = ... + ...

18 × 6 = ...

Le carreleur a posé ..... carreaux.

3 Un immeuble de 8 étages comporte 17 fenêtres par étage.
Combien de fenêtres l'immeuble comporte-t-il ?

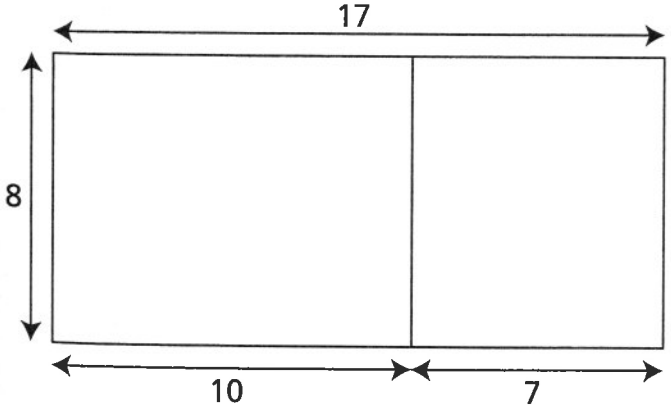

17 × 8 = ... × ..... + ... × .....

17 × 8 = ... + ...

17 × 8 = ...

L'immeuble comporte ..... fenêtres.

© Hachette Livre 2010 – Pour comprendre les mathématiques Photofiches CE2 – Reproduction autorisée pour une classe seulement.